Estratégia Vestibulares

CORREÇÃO UFU MEDICINA 2022 - 1ª FASE

Geografia

Prof. Saulo

QUESTÕES COMENTADAS

QUESTÃO 25

"Nos últimos três anos, Myanmar vive um conflito étnico pouco conhecido. O país, que fica ao sul da Índia, faz fronteira com Bangladesh, Laos e Tailândia, tem vivido cenas de terror — o que já foi chamado pela ONU de 'limpeza étnica'."

Disponível em: https://www.oxfam.org.br/blog/tres-anos-apos-inicio-da-crise-como-estao-os-refugiados-rohingya/. Acesso em: 11 jun. 2021.

Em 11/06/2021, a alta-comissária para os Direitos Humanos das Nações Unidas, Michelle Bachelet, alertou que a escalada de violência em Myanmar (antiga Birmânia), desde o golpe militar de 1º de fevereiro mergulhou o país numa **"catástrofe de direitos humanos"**.

Disponível em: https://observador.pt/2021/06/11/myanmar-escalada-de-violencia-e-uma-catastrofe-para-os-direitos-humanos/. Acesso em: 12 jun. 2021.

Sobre a temática apresentada, analise as afirmativas.

I. Em Myanmar, há uma disputa territorial no estado Rakhine. Com população de mais de um milhão de indivíduos, majoritariamente do grupo étnico rohingyas, com linguagem própria, não possui seus direitos reconhecidos nem cidadania.
II. No país, a origem do conflito está na recusa do governo em reconhecer os rohingyas como cidadãos de direito de Myanmar, com alegação de que são naturais da Índia e da China.
III. Os refugiados rohingya defendem que são descendentes de mercadores muçulmanos, trazidos para Myanmar por meio da exploração ultramarina britânica no século IX.
IV. Em Myanmar, o conflito não é apenas territorial. Os rohingyas sofrem perseguição religiosa em um país predominantemente budista, que entende a cultura islâmica como uma ameaça.
V. Os rohingyas que ainda permanecem em seu estado são considerados apátridas e têm sua saída do país dificultada pelo governo por meio de instalação de minas nas fronteiras e nas estradas.

Assinale a alternativa que apresenta as afirmativas corretas.

A) Apenas II, III e IV.
B) Apenas I, III e IV.
C) Apenas I, II, IV e V.
D) Apenas I, III, IV e V.

Comentários

I. Correto. A origem do conflito está na recusa do governo em reconhecer os rohingyas como cidadãos de direito de Myanmar, com alegação de que são naturais de Bangladesh. Os refugiados rohingya defendem, no entanto, que são descendentes de mercadores muçulmanos trazidos para Myanmar por meio da exploração ultramarina britânica no século 19.

II. Incorreto. Naturais de Bangladesh.

III. Incorreto. Século XIX.

IV. Correto. Para o Governo do Mianmar, o ato de ceder direitos às minorias seria 'desvantajoso e perigoso', uma vez que se tornariam uma 'ameaça' à população budista bramá.

V. Correto. Myanmar não facilita a saída dos rohingyas do país. As fronteiras estão cobertas de minas desde a década de 90 e os acidentes com rohingyas feridos ou mortos por minas têm aumentado.

Gabarito: sem gabarito

Processo Seletivo UFU/2021-2 – Edital DIRPS Nº 05/2021 | TIPO 2

QUESTÃO 26

"As cidades do futuro, em vez de feitas de vidro e de aço, como fora previsto por gerações anteriores de urbanistas, serão construídas em grande parte de tijolo, palha, plástico reciclado, blocos de cimento e restos de madeira. Em vez das cidades de luz, arrojando-se aos céus, em boa parte do mundo urbano do século XXI, instala-se a miséria, cercado de poluição, de excrementos e de deterioração. Na verdade, o bilhão de habitantes urbanos que moram nas favelas pós-modernas podem mesmo olhar com inveja as ruínas das robustas casas de barro de Çatal Hüyük, na Anatólia, construídas no alvorecer da vida urbana há 9 mil anos."

DAVIS, Make. **Planeta Favela**. São Paulo: Boitempo, 2006, pp. 28-29.

Sobre a temática apresentada no texto acima, é correto afirmar que

A) o Brasil é o país com maior contingente de moradores em aglomerados subnormais. Salvador e Rio de Janeiro são as duas cidades com maior número de pessoas vivendo em aglomerados subnormais, localizados nas encostas da Serra do Mar e sujeitos a processos intensivos de aterramentos e de desmoronamentos.

B) em diversas cidades do mundo, tanto desenvolvido quanto subdesenvolvido, pessoas "sem-teto" se organizam para lutar pelo direito à moradia urbana adequada e por melhores condições de vida, formando importantes organizações de atuação mundial.

C) nas grandes cidades mundiais, a violência urbana é indicadora das necessidades da população em relação à moradia, reflexo da necessidade criada, principalmente nos países subdesenvolvidos, pelos meios de comunicação e pelo atual estilo de vida consumista.

D) a África Subsaariana é a região com maior número absoluto de moradores em submoradias. A China e a Índia, embora tenham reduzido significativamente o número de pessoas que moram em habitações precárias, ainda são os países que apresentam os maiores números absolutos.

Comentários

a) Incorreto. São Paulo possui mais.

b) Incorreto. "importantes organizações de atuação mundial" ficou de forma exagerada.

c) Incorreto. Não é uma necessidade criada, é uma consequência. Ademais, o estilo de vida consumista é mais comum nos países desenvolvidos e emergentes.

d) Correto. Segundo o documento, a África Subsaariana é a região com maior população em favelas, 199 milhões, quase 62% dos habitantes de áreas urbanas.

Gabarito: d

QUESTÃO 27

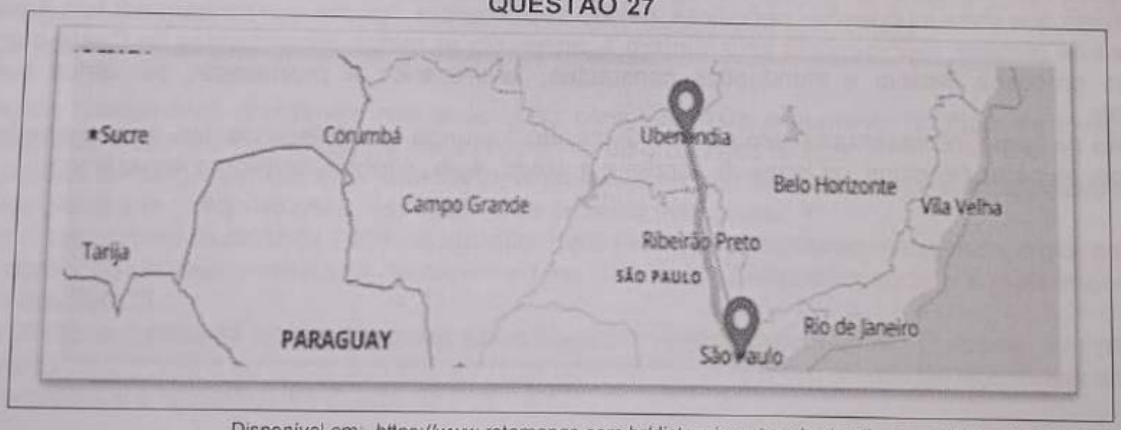

Disponível em: https://www.rotamapas.com.br/distancia-entre-uberlandia-e-sao-paulo. Acesso em: 06 jun. 2021.

Em linha reta, a distância entre Uberlândia-MG e São Paulo-SP é de 540 KM. Num mapa de escala E=1:150.000, a distância entre as duas cidades será representada em

A) 4,2 cm.
B) 8,1 cm.
C) 3,6 cm.
D) 5,4 cm.

1cm — 150 000 cm
X cm 540 000 00 cm 150000

Comentários

1 cm _____ 1,5 km

X _____ 540 km

Gabarito: sem gabarito

Processo Seletivo UFU/2021-2 – Edital DIRPS Nº 05/2021

QUESTÃO 28

Perfil Norte-Sul da Bacia Amazônica - Subtipos

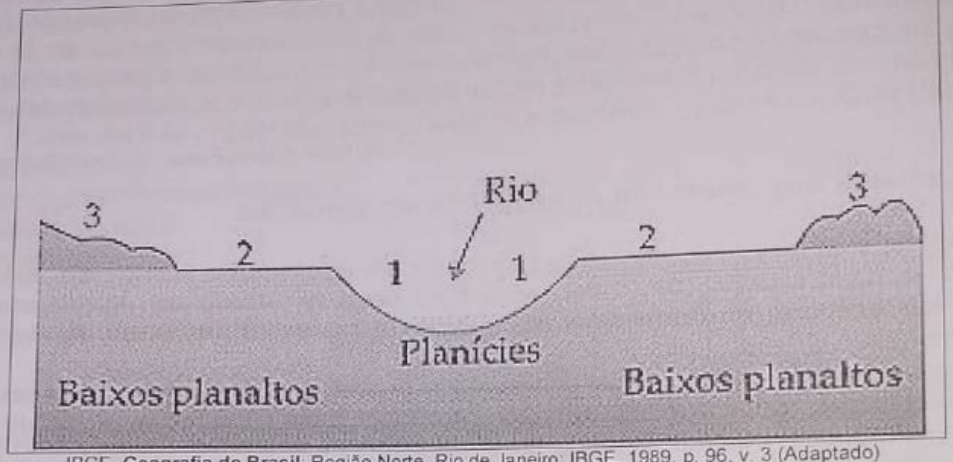

IBGE, **Geografia do Brasil**: Região Norte. Rio de Janeiro: IBGE, 1989, p. 96, v. 3 (Adaptado)

Marcado por paisagens diferenciadas, o Bioma Amazônico ocupa grande parte da fração norte da América do Sul.

Com relação aos subtipos da floresta e o perfil apresentado, é correto afirmar que

A) nos Baixos planaltos, encontram-se as matas de Caiapó, representadas pelo número 3, com solos profundos em função do intenso intemperismo físico e lixiviação e vegetação de grande porte.

B) a mata de Várzea, representada pelo número 2, localiza-se nas proximidades dos rios e consiste na parte da floresta que sofre inundações periódicas, devido às enchentes dos rios que formam a Bacia Amazônica.

C) na área de planície, representada pelo número 1, aparecem as matas denominadas de Caeté que sofrem intenso processo erosivo e inundações constantes, favorecendo a proliferação de vários substratos vegetais.

D) na mata de igapó, representada pelo número 2, devido à grande quantidade de rios, existem os igarapés, os furos, os paranás-mirins, os lagos de várzea e a vitória-régia, símbolo do Bioma Amazônico.

Comentários

a) Incorreto. O número 3 representa Mata de Terra Firme. Ademais, o intemperismo químico atua mais.

b) Correto. É nessa área que encontramos a Seringueira.

c) Incorreto. Caeté significa “mata densa” ou “mata virgem” em Tupi-Guarani.

d) Incorreto. O número 2 está a Várzea.

Gabarito: b

QUESTÃO 29 | TIPO 2

Rússia: Crescimento do PIB (em %), no período de 2000 – 2015

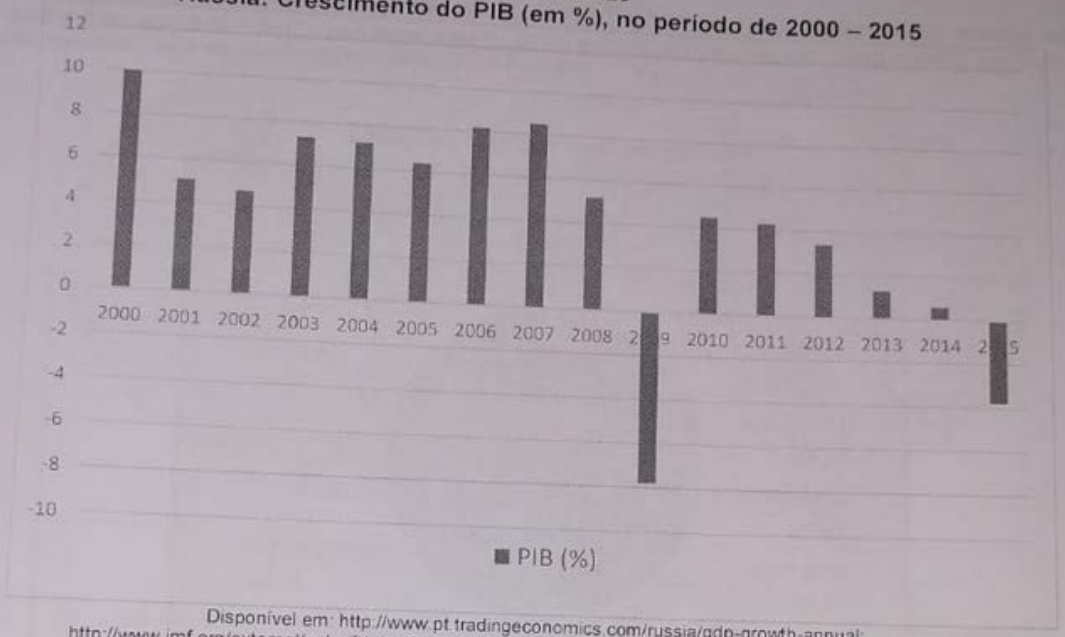

Disponível em: http://www.pt.tradingeconomics.com/russia/gdp-growth-annual; http://www.imf.org/external/pubs/ft/weo/2015/01/weodata/index.aspx>. Acesso em: 12 maio 2021. (Adaptado).

O gráfico acima apresenta o crescimento do PIB (em %) no período de 2000 a 2015. Conforme se observa, o país tem apresentado grandes oscilações no seu crescimento econômico.

Considerando-se esse processo, analise as afirmativas.

I. O rápido crescimento econômico nos anos 2000 contribuiu para o aumento do fluxo de investimentos estrangeiros e transformou o país no mais importante do grupo dos BRICS.

II. Os capitais estrangeiros têm sido atraídos pelo crescimento do mercado interno e pela possibilidade de exploração dos recursos naturais, especialmente no setor energético.

III. Mesmo com a crise mundial de 2009, os investimentos externos continuaram crescendo, o que possibilitou a recuperação da economia russa, tornando-a uma das mais sólidas do mundo e a mais importante do grupo dos BRICS.

IV. Após 2009, o crescente boicote imposto pelos Estados Unidos e pela União Europeia, em resposta à anexação da Criméia e ao apoio aos separatistas ucranianos, promoveu a redução acentuada no fluxo de investimentos e a consequente queda do PIB.

Assinale a alternativa que apresenta as afirmativas corretas.

A) Apenas II e IV.
B) Apenas I e III.
C) Apenas II e III.
D) Apenas III e IV.

Comentários

I. Incorreto. A China é a mais importante dos BRICS.

II. Correto. Com destaque para o petróleo e o gás natural.

III. Incorreto. Se tivesse crescido, o PIB não seria negativo.

IV. Correto. A anexação ocorreu em 2014.

Gabarito: a

QUESTÃO 30

De acordo com dados divulgados em 2020 pelo Ministério da Justiça, o Brasil atraiu diversos estrangeiros nos últimos anos. No período de 2010 a 2019, o país registrou 1.085 milhão de imigrantes.

Disponível em: https://portaldeimigracao.mj.gov.br/pt/. Acesso em: 03 jun. 2021.

Imigrantes com registro no Brasil



Polícia Federal do Brasil, 2019.
Disponível em: https://noticias.r7.com/internacional/registro-de-migrantes-sobe-mas-brasil-reconhece-mil-refugiados-04022019. Acesso em: 23 jan. 2021.

Considerando-se as informações apresentadas, é **INCORRETO** afirmar que

A) o processo imigratório atual é idêntico ao que ocorreu no final do século XIX até a década de 1930, quando as pessoas originárias de diferentes partes do globo constituíam os principais fluxos migratórios que vieram para o Brasil.

B) a crise econômica internacional, iniciada em 2007 nos Estados Unidos, que também afetou de forma substancial a Europa e o Japão, introduziu maior complexidade ao fenômeno migratório latino-americano, especialmente com o incremento da mobilidade humana no cenário sul-sul, como ocorrido no Brasil.

C) com o desenvolvimento econômico brasileiro, especialmente durante o primeiro quinquênio da década atual, imigrantes de diferentes origens do Sul Global (por exemplo: sul-americanos, haitianos, senegaleses entre outros), inseriram-se de forma crescente no país e no mercado de trabalho brasileiro.

D) no primeiro quinquênio da década, imigrantes de diferentes partes do hemisfério sul e, especialmente, latino-americanos nos últimos anos, caracterizaram o curto, porém intenso, período de chegada de novos fluxos migratórios ao Brasil.

Comentários

a) Incorreto. “idêntico” ficou de forma muito exagerada.

b) Correto. O fluxo migratório sul-sul tem sido comum.

c) Correto. Conforme demonstra o gráfico e o texto.

e) Correto. Em menos de 1 década, mais de 1 milhão de imigrantes chegaram.

Gabarito: a

QUESTÃO 31
PLACAS TECTÔNICAS

SIMIELLI, Maria Elena. **Geoatlas**, São Paulo, Ática, 2000, p. 5. (Adaptado)

A partir da análise do mapa apresentado acima, é correto afirmar que

A) na zona de encontro entre duas placas convergentes, a exemplo da Norte-Americana e da Africana, o magma aflora rapidamente, formando intenso processo tectônico com o surgimento de vulcões, de abalos sísmicos e de tsunamis.

B) na zona de convergência, a exemplo do que ocorre entre a placa Norte-Americana e a do Pacífico, o intenso movimento do material magmático forma falhas e ilhas tectônicas, a exemplo da Falha de San Andres.

C) na faixa de contato entre placas convergentes, por exemplo as placas Sul-Americana e a de Nazca, ocorre o fenômeno de subducção que dá origem às fossas marinhas, como a de Atacama, no Oceano Pacífico.

D) nos limites divergentes como o que ocorre entre as placas Euroasiana e Africana, cujos limites são continentais, ocorrem fortes abalos sísmicos e intenso metaformismo.

Comentários

a) Incorreto. Elas se afastam.

b) Incorreto. A Falha de San Andreas é uma falha geológica tangencial que se prolonga por cerca de 1.290 km através da Califórnia. A falha de San Andreas marca um limite transformante, encontro de placas tectônicas que se transformam, ocorre entre a placa do Pacífico e a placa Norte-americana.

c) Correto. Além de formar a Cordilheira dos Andes.

d) Incorreto. É um limite convergente.

Gabarito: c

QUESTÃO 32

Disponível em: https://www.mg.gov.br/conheca-minas/rodovias. Acesso em: 05 maio 2021.

Com malha rodoviária equivalente a cerca de 16% do somatório das rodovias estaduais, federais e municipais, Minas Gerais tem a maior malha rodoviária do Brasil, conforme apresentado no mapa acima. Sobre essa importante rede de transportes do estado mineiro, é **INCORRETO** afirmar que

A) a Rodovia Fernão Dias (BR 381) é a principal ligação entre as regiões metropolitanas de Belo Horizonte e de São Paulo. Forma um dos mais importantes eixos de transporte de carga e de passageiros de todo o Brasil.

B) a BR 262 liga o Triângulo Mineiro ao Espírito Santo. Devido à concentração de empresas atacadistas na região, é a principal rodovia de transporte de carga do estado.

C) a Rio-Bahia (BR 116) forma um corredor viário que corta o Leste e o Noroeste de Minas Gerais, permitindo acesso ao Rio de Janeiro, ao Espírito Santo e à Bahia, servindo de elo entre as regiões Sul e Sudeste do Brasil com o Nordeste.

D) a BR 040 liga Belo Horizonte à principal cidade-polo da região da Zona da Mata, Juiz de Fora, que abriga empresas automobilísticas, agroindustriais, moveleiras, metalúrgicas, cimenteiras, têxteis e produtoras de papel e de papelão.

Comentários

a) Correto. É uma rodovia duplicada.

b) Incorreto. Rodovia Fernão Dias (BR 381): É a principal ligação entre as regiões metropolitanas de Belo Horizonte e São Paulo. Forma um dos mais importantes eixos de transporte de carga e de passageiros de todo o Brasil.

c) Correto. Fundamental para o turismo.

d) Correto. Partindo de Belo Horizonte, com pista dupla até Sete Lagoas, a BR 040 atravessa o Noroeste de Minas ligando Belo Horizonte à capital federal, numa extensão total de 716 km. No outro sentido, passando pela Zona da Mata e Campo das Vertentes, dá acesso ao Rio de Janeiro, com extensão de 434 km.

Gabarito: b

D) Apenas I, II e III.

QUESTÃO 37

Com o avanço do capitalismo no século XX, vários métodos de racionalização do trabalho industrial foram concebidos, produzindo transformações, tanto na organização produtiva quanto na vida social. Um dos principais métodos foi desenvolvido por Frederick Taylor, que afirmava a necessidade da análise científica da produção com o intuito de combater tudo aquilo que impedisse o aumento da produtividade.

Em consequência disso, é correto afirmar que a principal inovação técnica trazida pelo chamado taylorismo foi

A) a extinção da hierarquia e dos conflitos nas fábricas para estreitar a relação entre os empregados.
B) o controle rigoroso e cronometrado do trabalho para evitar desperdícios e aumento dos custos da produção.
C) o fortalecimento das organizações sindicais com o intuito de melhorar o ambiente de trabalho nas fábricas.
D) a formação de trabalhadores multiqualificados para realizarem funções diversificadas numa mesma jornada.

Comentários

a) Incorreto. Implementação da hierarquia.

b) Correto. Os funcionários deveriam trabalhar como robôs.

c) Incorreto. Esse fortalecimento ocorreu, principalmente, após a segunda metade do século XX.

d) Incorreto. Isso é do Toyotismo.

Gabarito: b